1 Вычисли: 35 + 26.

Ответ:

2 Вычисли: $76 - 3 \cdot (12 + 8)$.

Ответ:

3 Рассмотри рисунок и реши задачу. Покупатель решил купить один килограмм кураги и один килограмм чернослива и дал продавцу 1000 рублей. Сколько рублей сдачи должен получить покупатель?



Запиши решение и ответ.

Решение:

Ответ:

Код

4 Петя потратил на дорогу от дома до школы 26 минут и пришёл в школу в 8 часов 14 минут. В котором часу Петя вышел из дома?

Ответ: **ч** **мин**

5 На клеточном поле со стороной клетки 1 см изображён прямоугольник.

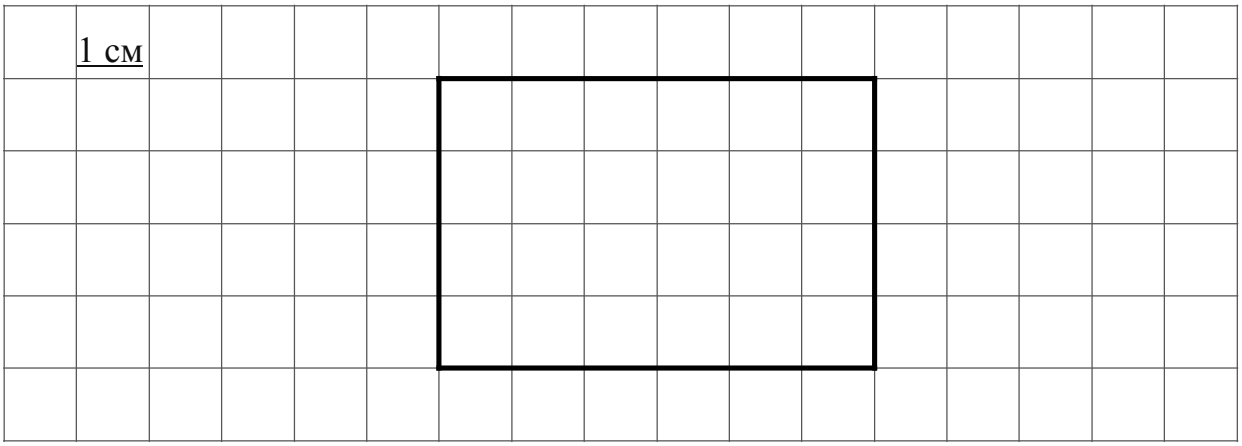

1) Найди периметр этого прямоугольника.

Ответ:

2) Проведи на рисунке прямую линию, которая разделит этот прямоугольник на два прямоугольника, так, чтобы площадь одного из них была равна 8 кв. см.

6 Четыре подружки занимаются в кружке рукоделия. Из бумаги и лоскутов ткани они делают цветы. В таблице показано, сколько и каких цветов сделала каждая девочка. Используя эти данные, ответь на вопросы.

Девочка	Незабудка	Роза	Хризантема
Алина	7	5	9
Инна	12	5	1
Света	5	7	1
Юля	7	3	7

1)Сколько роз сделала Инна?

Ответ:

2)Кто из них сделал больше всех цветов?

Ответ:

Код

7 Вычисли: 276 · 25: 30 + 286.

Ответ:

8 Объём бочки 250 л. В пустую бочку вылили 13 двенадцатилитровых и 5 десятилитровых вёдер воды. Сколько ещё литров воды может поместиться в бочке?

Запиши решение и ответ.

Решение:

Ответ:

9 Алексей Владимирович едет читать лекции в города Дальнего Востока на неделю, с понедельника по воскресенье включительно. Он посетит по порядку города: Биробиджан, Хабаровск, Владивосток и Южно-Сахалинск. В каждом городе Алексей Владимирович планирует читать лекции не более двух дней, а переезжать из города в город будет только ночью.

1) В каком городе Алексей Владимирович будет читать лекцию в пятницу? Ответ:

2) Если ночь с четверга на пятницу Алексей Владимирович проведёт в гостинице, то в каком городе он будет читать лекцию в субботу?

Ответ:

Код

10 На столбе висела табличка (рис. 1). Верхний винт, державший табличку, выпал, и табличка перевернулась. Нарисуй, как будет выглядеть перевёрнутая табличка с надписью (рис. 2).

Рис. 1

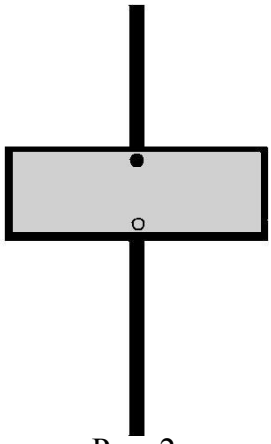

Рис. 2

11 Кустов малины в саду в восемь раз больше, чем кустов крыжовника. Садовник решил посчитать все кусты в саду. Сначала у него получилось 106 кустов, затем — 110, а в третий раз — 108. Известно, что один раз садовник посчитал верно. Сколько всего кустов в саду?

Запиши решение и ответ.

Решение:

Ответ: